正負の数

石垣に入る数 ④

得点　　/50
10点×5

モノマナビ研究所

横に並んだ石垣の和が上の石垣の数字になる。
空欄に入る数字を考えて書きなさい。

例

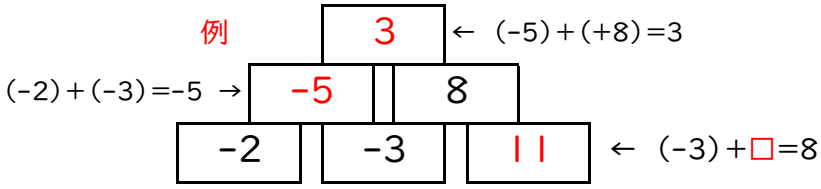

①

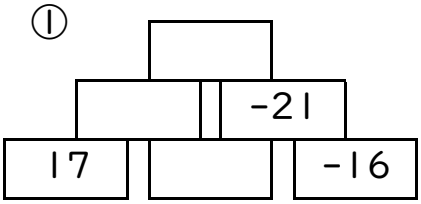

計算スペース

②

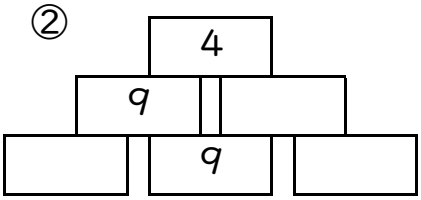

計算スペース

③

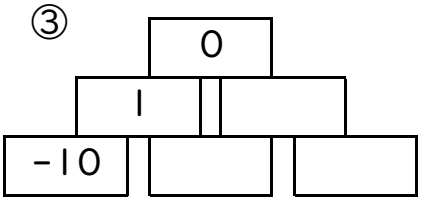

計算スペース

④

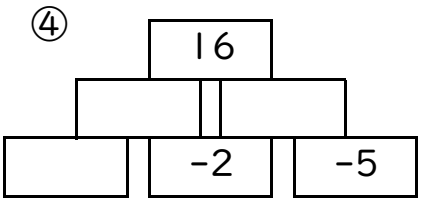

計算スペース

⑤

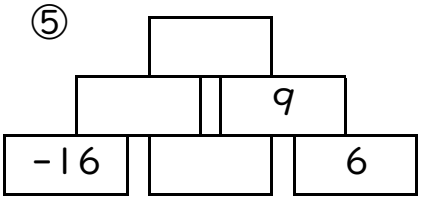

計算スペース

No.(　　)　　年　　組 名前

このプリントは無料ダウンロードできます。https://monomanabi.co.jp　モノマナビ研究所　検索