気象観測

得点　　/60

10点×6　計60点

モノマナビ研究所

下の表と図を参考にして次の問題に答えなさい。

乾球

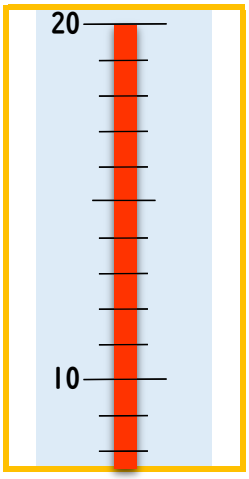

湿球

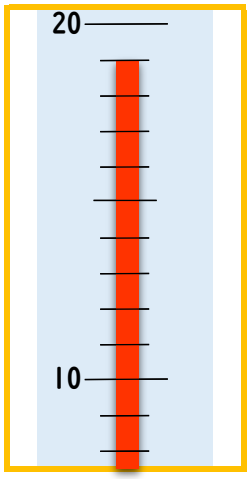

乾球〔℃〕	乾湿球の差〔℃〕				
	0	1	2	3	4
21	100	91	82	73	65
20	100	91	81	72	64
19	100	90	81	72	63
18	100	90	80	71	62
17	100	90	80	70	61
16	100	89	79	69	59
15	100	89	79	68	58

【1】　この時の気温は何℃か。　〔　　〕

【2】　この時の乾球と湿球の示す温度の差は何℃か。　〔　　〕

【3】　この時の湿度は何%か。　〔　　〕

乾球



湿球

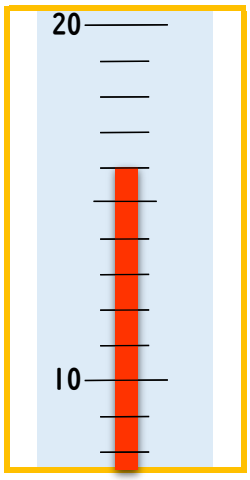

乾球〔℃〕	乾湿球の差〔℃〕				
	0	1	2	3	4
21	100	91	82	73	65
20	100	91	81	72	64
19	100	90	81	72	63
18	100	90	80	71	62
17	100	90	80	70	61
16	100	89	79	69	59
15	100	89	79	68	58

【4】　この時の気温は何℃か。　〔　　〕

【5】　この時の乾球と湿球の示す温度の差は何℃か。　〔　　〕

【6】　この時の湿度は何%か。　〔　　〕

このプリントは無料ダウンロードできます。https://monomanabi.co.jp　モノマナビ研究所　検索